1-14 複合立体の体積・表面積

[07／08] 組 番 氏名＿＿＿＿＿＿

分けて足す・引く。表面積では、くっついた面が**表に出ないこと**に注意する。

(1) 底面の半径 6 cm・高さ 4 cm の円柱の上に、底面が同じで高さ 8 cm の円錐をのせた立体の体積

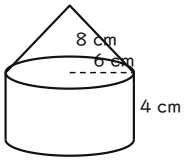

答 ＿＿＿＿＿＿

(2) 底面の半径 3 cm・高さ 6 cm の円柱の上に、半径 3 cm の半球をのせた立体の体積

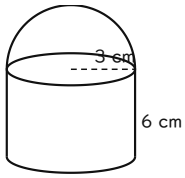

答 ＿＿＿＿＿＿

(3) 外側の半径 7 cm、内側の半径 4 cm、高さ 5 cm の筒（パイプ）の体積

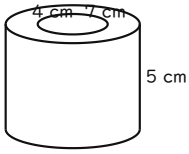

答 ＿＿＿＿＿＿

(4) 縦 6 cm、横 10 cm、高さ 8 cm の直方体を、底面の半径 2 cm の円柱の形にくりぬいた立体の体積

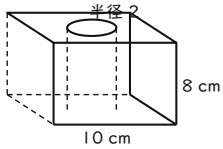

答 ＿＿＿＿＿＿

(5) 底面の半径 6 cm・高さ 4 cm の円柱の上に、底面が同じで高さ 8 cm の円錐をのせた立体で、円柱の側面積

答 ＿＿＿＿＿＿

(6) 底面の半径 3 cm・高さ 6 cm の円柱と半径 3 cm の半球を合わせた立体の表面積（底面もふくむ）

答 ＿＿＿＿＿＿

(7) 外側の半径 7 cm、内側の半径 4 cm、高さ 5 cm の筒の、上下の輪の部分の面積の合計

答 ＿＿＿＿＿＿

(8) 上の面の半径 5 cm、下の面の半径 8 cm、高さ 6 cm の円錐台の体積

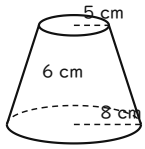

答 ＿＿＿＿＿＿

解答は裏面

1-14 複合立体の体積・表面積 <解答>

[07／08]

分けて足す・引く。表面積では、くっついた面が**表に出ないこと**に注意する。

(1) 底面の半径 6 cm・高さ 4 cm の円柱の上に、底面が同じで高さ 8 cm の円錐をのせた立体の体積

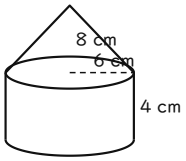

$\pi\times6^2\times4+\pi\times6^2\times8\div3$

答 **240π cm³**

(2) 底面の半径 3 cm・高さ 6 cm の円柱の上に、半径 3 cm の半球をのせた立体の体積

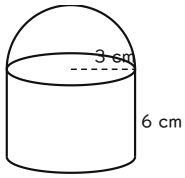

$\pi\times3^2\times6+(2/3)\pi\times3^3$

答 **72π cm³**

(3) 外側の半径 7 cm、内側の半径 4 cm、高さ 5 cm の筒（パイプ）の体積

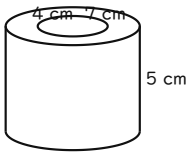

$\pi\times(7^2-4^2)\times5$

答 **165π cm³**

(4) 縦 6 cm、横 10 cm、高さ 8 cm の直方体を、底面の半径 2 cm の円柱の形にくりぬいた立体の体積

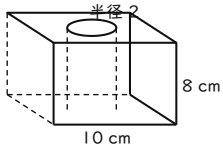

$10\times6\times8-\pi\times2^2\times8$

答 **$480-32\pi$ cm³**

(5) 底面の半径 6 cm・高さ 4 cm の円柱の上に、底面が同じで高さ 8 cm の円錐をのせた立体で、円柱の側面積

$2\pi\times6\times4$

答 **48π cm²**

(6) 底面の半径 3 cm・高さ 6 cm の円柱と半径 3 cm の半球を合わせた立体の表面積（底面もふくむ）

半球の曲面 $2\pi\times3^2$ + 側面 $2\pi\times3\times6$ + 底面 $\pi\times3^2$

答 **63π cm²**

(7) 外側の半径 7 cm、内側の半径 4 cm、高さ 5 cm の筒の、上下の輪の部分の面積の合計

$2\times\pi\times(7^2-4^2)$

答 **66π cm²**

(8) 上の面の半径 5 cm、下の面の半径 8 cm、高さ 6 cm の円錐台の体積

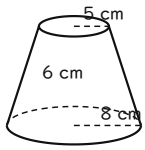

$(\pi\times6\div3)\times(8^2+8\times5+5^2)$

答 **258π cm³**